

Géographie nationale

Je m'exerce…

Exercice 1 : Localisez et positionnez, par leur numéro, les régions métropolitaines, sur la carte ci-dessous :

① Auvergne - Rhône Alpes
② Bourgogne - Franche Comté
③ Bretagne
④ Centre Val de Loire
⑤ Corse
⑥ Grand Est
⑦ Hauts de France
⑧ Normandie
⑨ Nouvelle Aquitaine
⑩ Occitanie
⑪ Pays de la Loire
⑫ Provence - Alpes - Côte d'Azur
⑬ Ile de France

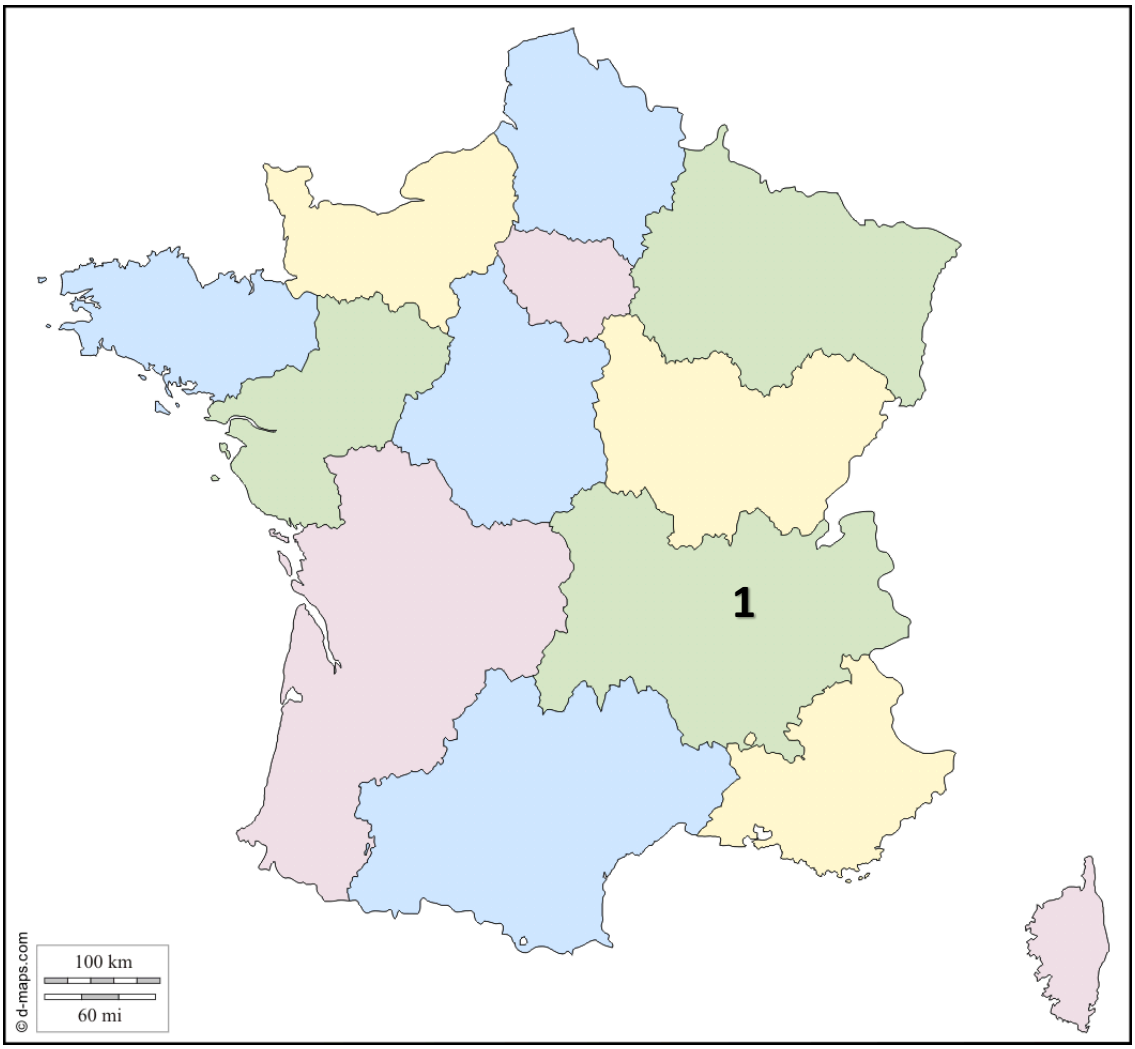

Exercice 2 : Localisez et positionnez les numéros des départements de la région Auvergne – Rhône-Alpes sur la carte ci-dessous et complétez le tableau en indiquant le nom du département et de son chef lieu :

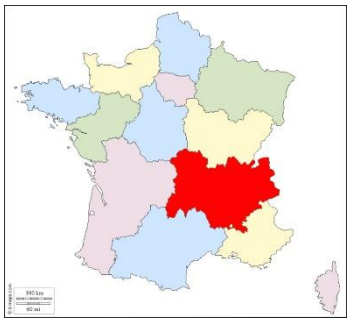

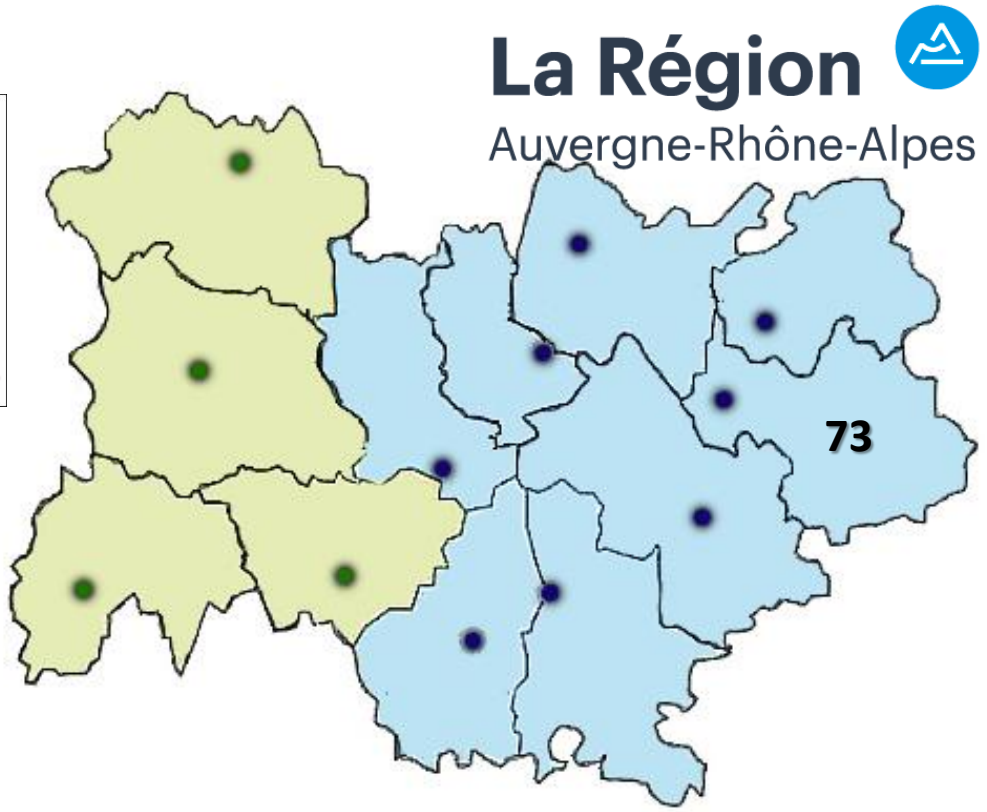

01		
03	ALLIER	Moulins
07	ARDECHE	Privas
15	CANTAL	Aurillac
26		
38		
42	LOIRE	St Etienne
43	HAUTE LOIRE	Le Puy en Velay
63	PUY DE DOME	Clermont Ferrand
69		
73		
74		

Exercice 3 : complétez les tableaux suivants en indiquant le nom de la région, du département et de son chef lieu : :

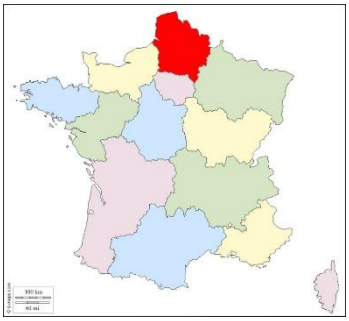

Région		
02		
59		
60		
62		
80		

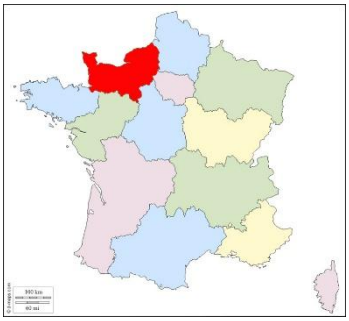

Région		
14		
27		
50		
61		
76		

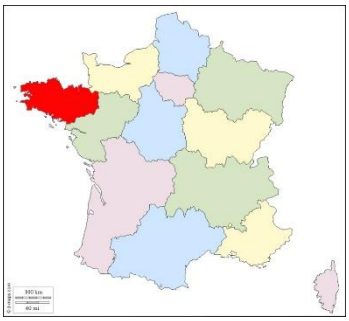

Région		
22		
29		
35		
56		

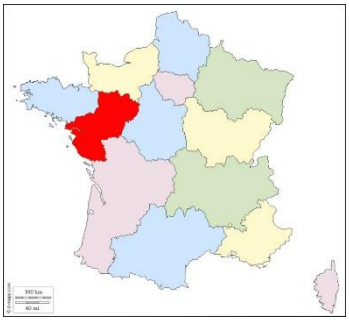

Région		
44		
49		
53		
72		
85		

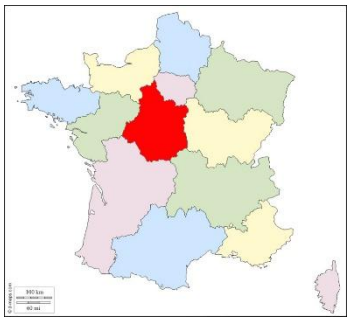

Région		
18		
28		
36		
37		
41		
45		

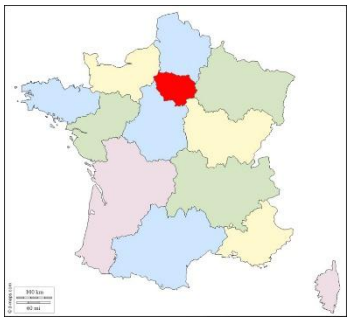

Région		
75		
77		
78		
91		
92		
93		
94		
95		

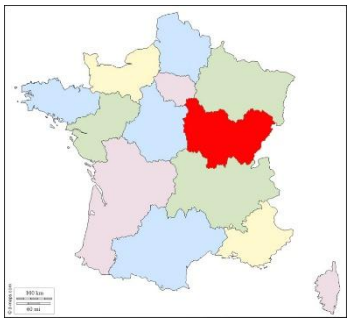

Région		
21		
25		
39		
58		
70		
71		
89		
90		

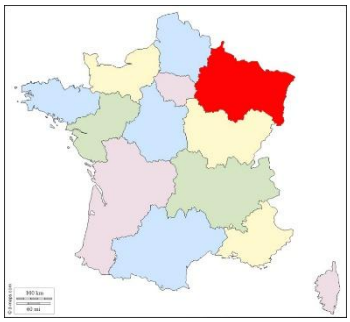

Région		
08		
10		
51		
52		
54		
55		
57		
67		
68		
88		

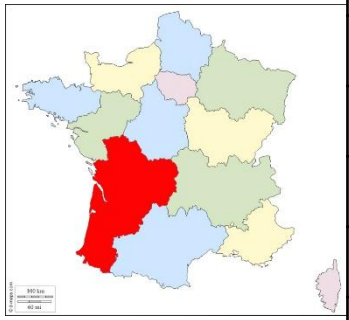

Région		
16		
17		
19		
23		
24		
33		
40		
47		
64		
79		
86		
87		

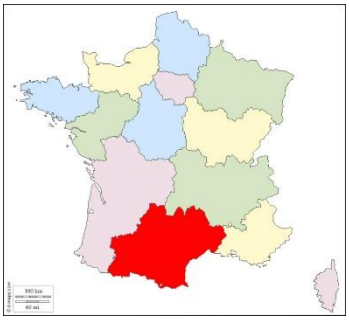

Région		
09		
11		
12		
30		
31		
32		
34		
46		
48		
65		
66		
81		
82		

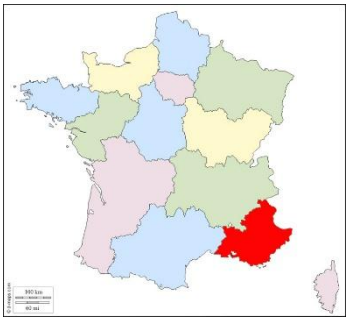

Région		
04		
05		
06		
13		
83		
84		

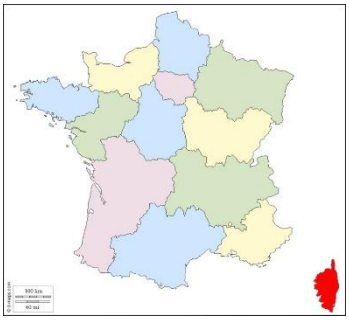

Région		
2A		
2B		

Exercice 4 : Complétez la carte de France donnée en ressource en positionnant les principales villes françaises suivantes :

Amiens
Brest
Bayonne
Bordeaux
Calais
Cherbourg
Clermont Ferrand
Dijon
Grenoble
La Rochelle
Le Havre
Lille
Limoges
Lyon
Marseille
Montpellier
Nancy
Nantes
Nice
Paris
Perpignan
Rennes
Reims
Rouen
Strasbourg
Toulon
Toulouse

Bastia
Ajaccio

