

Technologie du chariot

Je m'évalue

NOM :	Prénom :	Classe :	Note :

1 - Je complète le schéma suivant :

= 7 pts

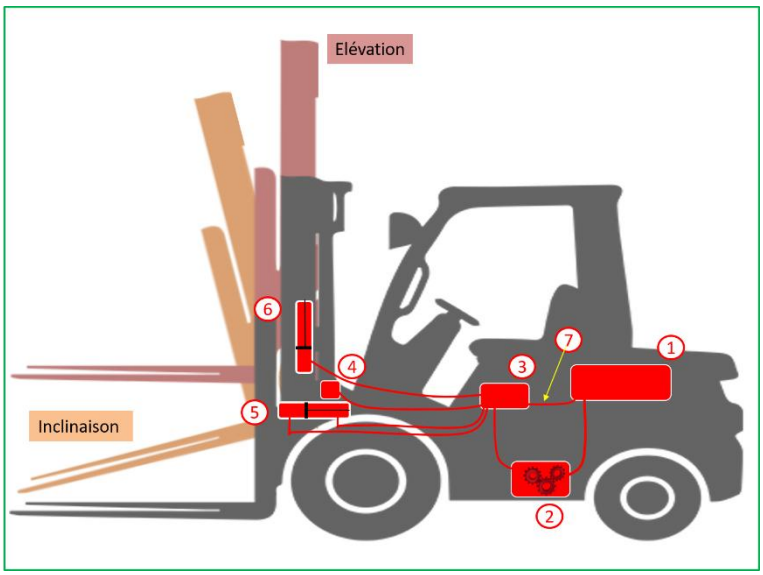

1.
2.
3.
4.
5.
6.
7.

2 - Je donne le nom des mâts suivants :

= 3 pts

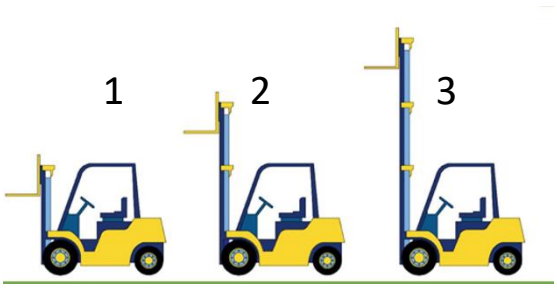

1.
2.
3.

3 - Je complète le schéma suivant :

= 4 pts

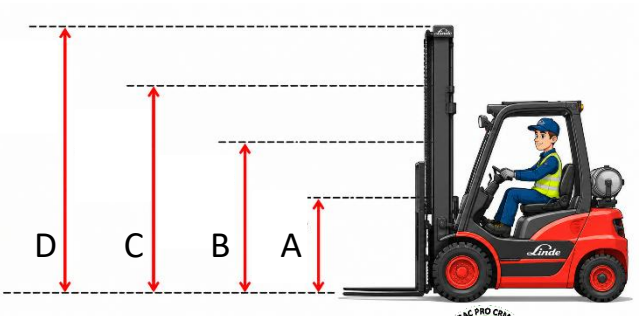

A -
B -
C -
D -

pole-transport-lac.fr ©
Pole d'activités n°2 - Séance 7.1.3

4 - Je complète la description du chariot suivant :

= 6 pts

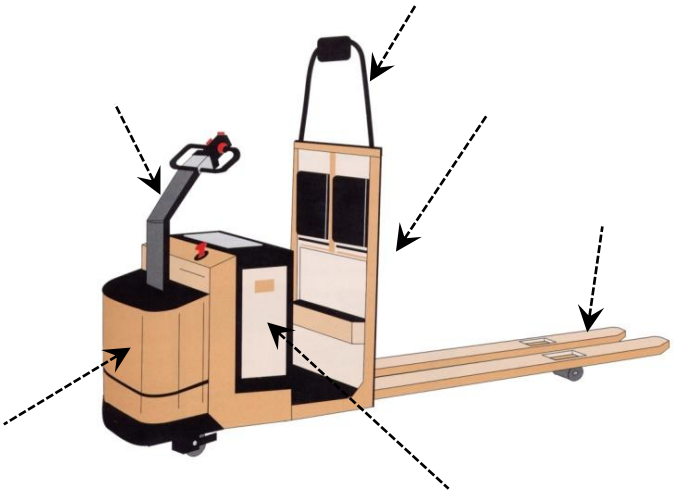

5 - Je complète la description du chariot suivant :

= 10 pts



6 - Comment s'appelle le mélange d'eau et d'acide contenu dans une batterie ?

= 1 pt

7 - Un chariot électrique est particulièrement adapté pour travailler à l'intérieur .

Vrai *Faux*

= 1 pt

8 - Un chariot thermique est particulièrement adapté pour travailler à l'intérieur .

Vrai *Faux*

= 1 pt

9 - Le mat d'un chariot électrique est actionné par un circuit hydraulique .

Vrai *Faux*

= 1 pt

10 - Le circuit hydraulique qui actionne le mat d'un chariot est composé de …

A - Un frein à disque

B - Un limiteur de pression

C - Plusieurs vérins

D - Un compresseur

= 1 pt

11 - Citez les 4 temps du fonctionnement d'un moteur thermique diesel :

1er temps =

2ème temps =

3ème temps =

4ème temps =

= 2 pts

12 - Au 1er temps du fonctionnement d'un moteur thermique diesel :

A - le cylindre se remplit d'air

B - Le cylindre se remplit d'un mélange d'air et de carburant

C - Le cylindre se remplit de gaz

D – Le cylindre se remplit de carburant

= 1 pt

13 - Comment s'appelle le cadran indiquant le nombre d'heure d'utilisation d'un chariot ?

= 1 pt

14 - Comment s'appelle l'action de déplacer les fourches vers la droite ou vers la gauche ?

= 1 pt