

Lecture de cartes et plans d'agglomérations

Je m'exerce…



Pour réaliser ces exercices, je dois impérativement être en possession de 2 cartes routières :

- Une carte routière nationale (exemple : Michelin « France »
  n° 721 ou n°792 au 1 / 1 000 000e)
- Une carte routière régionale (exemple : Michelin « Rhône Alpes »
  n°523 au 1/200 000e)

Question 1 : Quelle est l'échelle de votre carte routière nationale (ex : Michelin 792), qu'est ce cela signifie en termes de distance s, entre la représentation sur votre carte et la réalité ?

Question 2 : Quelle est l'échelle de votre carte routière régionale (ex : Michelin 523), qu'est ce cela signifie en termes de distance s, entre la représentation sur votre carte et la réalité ?

Question 3 : Laquelle de ces 2 échelles donnent la carte routière la plus détaillée ?

Question 4 : exemples d'indications sur la carte routière la plus détaillée que je ne trouve pas sur la carte la moins détaillée ?

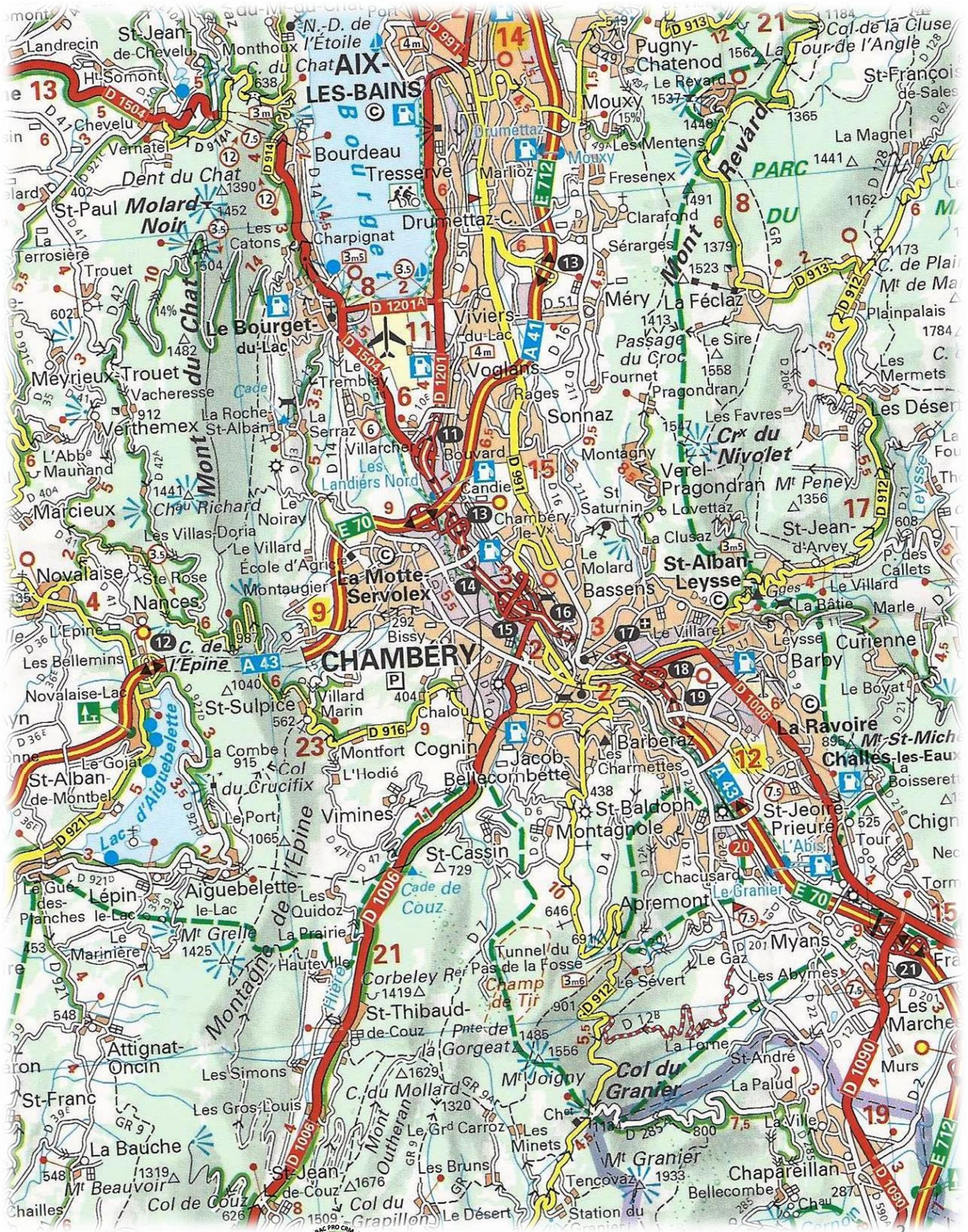

pole-transport-lac.fr ©
Pole d'activités n°1 - Séance 2.3.3

1er exercice :

Dans le tableau ressource ci-dessous, sont reproduits les symboles et pictogrammes visibles sur la carte des environs de Chambéry : on vous demande de les localiser (*surligner*) sur l'extrait de carte ci-joint et d'en identifier la signification à l'aide de la légende.

Symbole	Signification
	
	
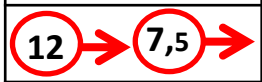	
	
	
	
	
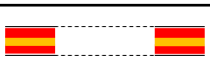	
	
	
	
	
	
	
	
	
	
	
	
	

2ème exercice :



Complétez le tableau suivant avec l'aide de votre carte nationale :

La distance à « vol d'oiseau » est fonction de la distance trouvée avec une règle pour relier 2 points de la carte (exemple : Chambéry et Marseille) et de l'échelle de la carte (ici 1 / 1000000e)

Pour l'observation de la distance réelle, privilégiez l'autoroute et utilisez les indications de distances fournies par votre carte routière

Indiquez vos observations et calculs kilométriques sur la page suivante !

Ville départ Expéditeur	Ville arrivée Destinataire	Distance en cm	Distance à vol d'oiseau	Distance réelle
Chambéry	Marseille			
Toulouse	Bordeaux			
Paris	Dijon			
Nantes	Rennes			
Paris	Lille			
Reims	Nancy			
Bordeaux	Lyon			
Toulouse	Lyon			
Lyon	Marseille			
Paris	Brest			
Paris	Strasbourg			
Paris	Lyon			

Chambéry / Lyon :

Toulouse / Bordeaux :

Paris / Dijon :

Paris / Lille :

Bordeaux / Lyon :

Toulouse / Lyon :

Reims / Nancy :

3ème exercice :

Replacez sur la carte les éléments de la légende inscrit ci-dessous et répondez aux questions liées à cet extrait de carte routière :

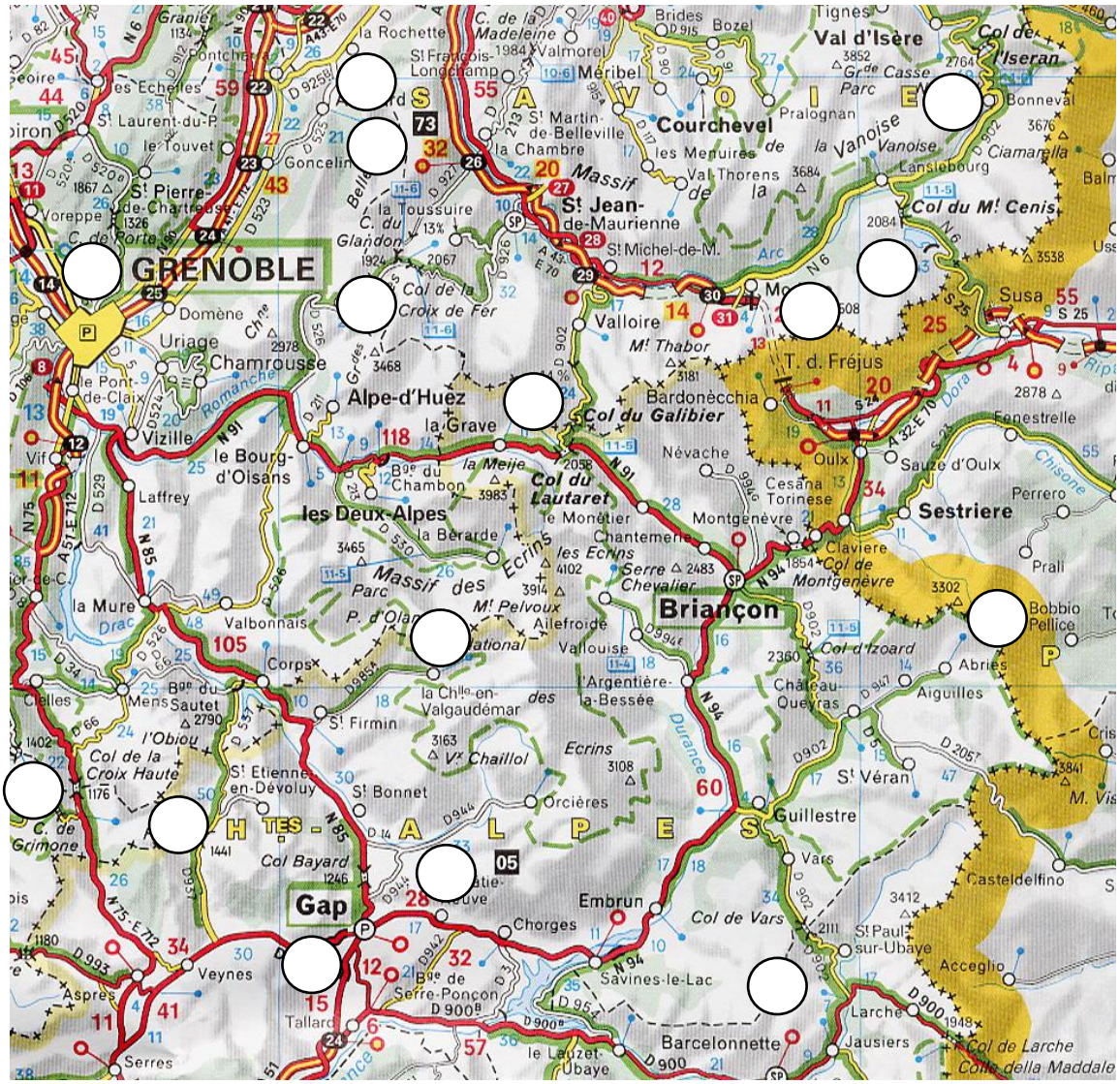
GRENOBLE
Gap
Briançon
Alpe-d'Huez
les Deux-Alpes
Courchevel
Val d'Isère
Sestriere
Susa
Barcelonnette
Guillestre
Embrun
Savines-le-Lac
Serre-Ponçon
Col du Galibier
Col du Lautaret
Col de Vars
Col du Mt Cenis
Col de Montgenèvre
Col de la Croix Haute
Col Bayard
Col de Larche
St Jean-de-Maurienne
St Michel-de-M.
Valloire
T. d. Fréjus
Névache
Montgenèvre
Serre Chevalier
Vallouise
Orcières
St Bonnet
St Firmin
St Véran
Vars
Chorges
Veynes
Serres
Tallard
Corps
Valbonnais
Laffrey
Vizille
Uriage
Domène
Chamrousse
le Bourg-d'Oisans
la Grave
la Meije
Massif des Ecrins
Massif de Belledonne
Parc national des Ecrins
Parc naturel régional du Queyras
Parc naturel régional du Vercors
Parc naturel régional de Chartreuse
Parc naturel régional du Massif des Bauges
Parc naturel régional du Luberon
Parc naturel régional du Verdon
Parc naturel régional du Lubéron
Parc naturel régional du Mont-Ventoux
Parc naturel régional du Mont-Ventoux
Parc naturel régional du Mont-Ventoux