

Lecture de cartes et plans d'agglomérations

Je m'évalue…

Corrigé

NOM :	Prénom :	Classe :	Note :

Lire un plan ou une carte routière

Donnez la signification des pictogrammes suivants :

 Autoroute

 Chaussée double non autoroutière

 Chaussée séparée

 Chaussée à 4 voies

 Itinéraire de 1er ordre (national ou international)

 Déclivité de 5 à moins de 9%

 Parcours difficile et/ou dangereux

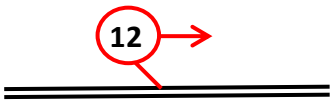

Limitation de tonnage à 12t (début)



Hauteur limitée (à 3,5 m)

 Château

 Ruines

 Usine

 Point de vue panoramique



Préfecture

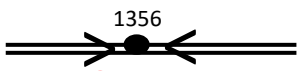

Col routier