

Géographie nationale

Je m'exerce…

Exercice 1 : Localisez et positionnez, par leur numéro, les régions métropolitaines, sur la carte ci-dessous :

① Auvergne - Rhône Alpes
② Bourgogne - Franche Comté
③ Bretagne
④ Centre Val de Loire
⑤ Corse
⑥ Grand Est
⑦ Hauts de France
⑧ Normandie
⑨ Nouvelle Aquitaine
⑩ Occitanie
⑪ Pays de la Loire
⑫ Provence - Alpes - Côte d'Azur
⑬ Ile de France

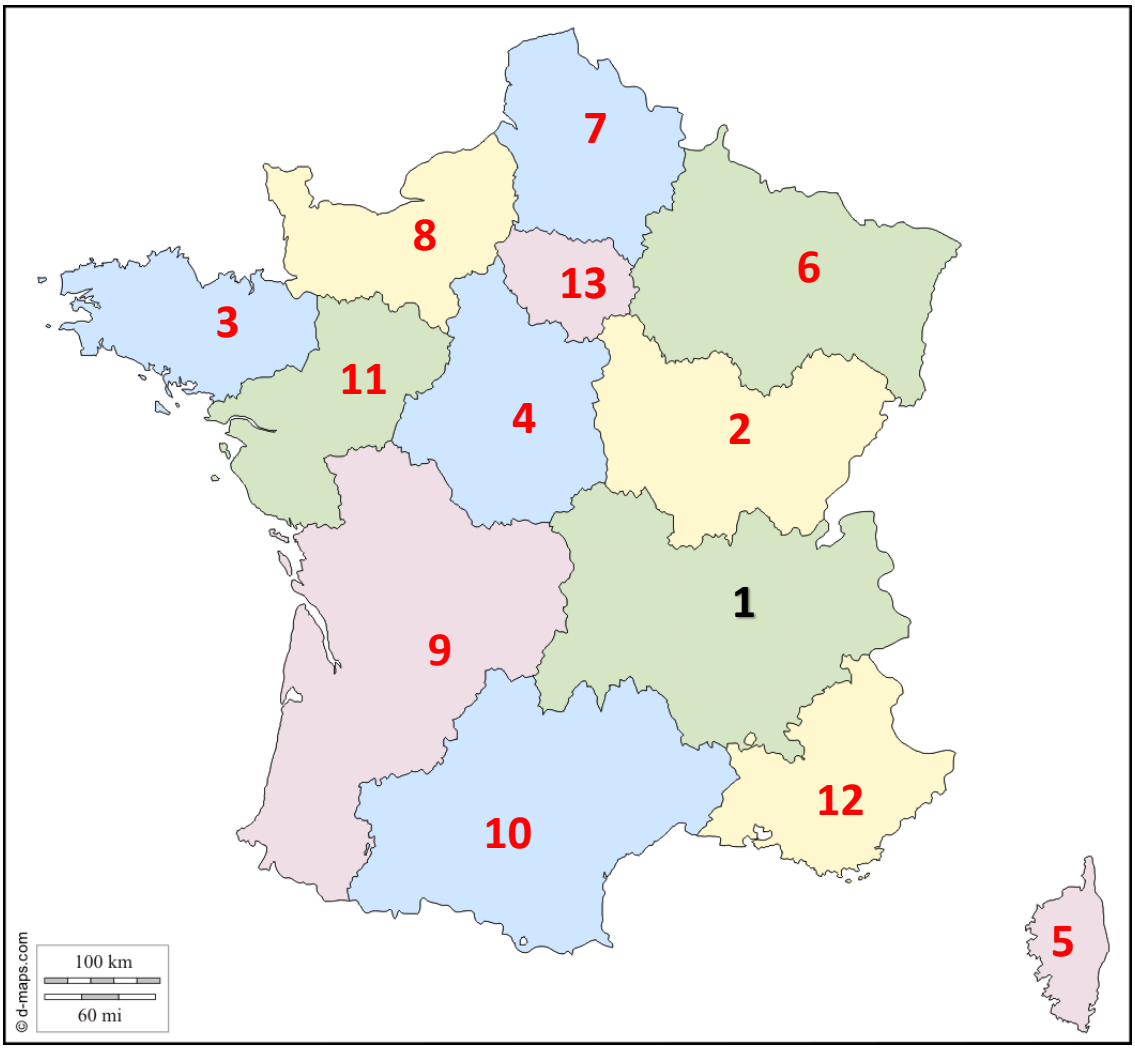

Exercice 2 : Localisez et positionnez les numéros des départements de la région Auvergne – Rhône-Alpes sur la carte ci-dessous et complétez le tableau en indiquant le nom du département et de son chef lieu :

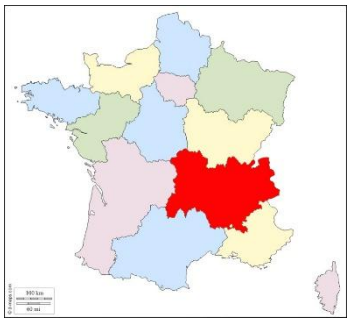

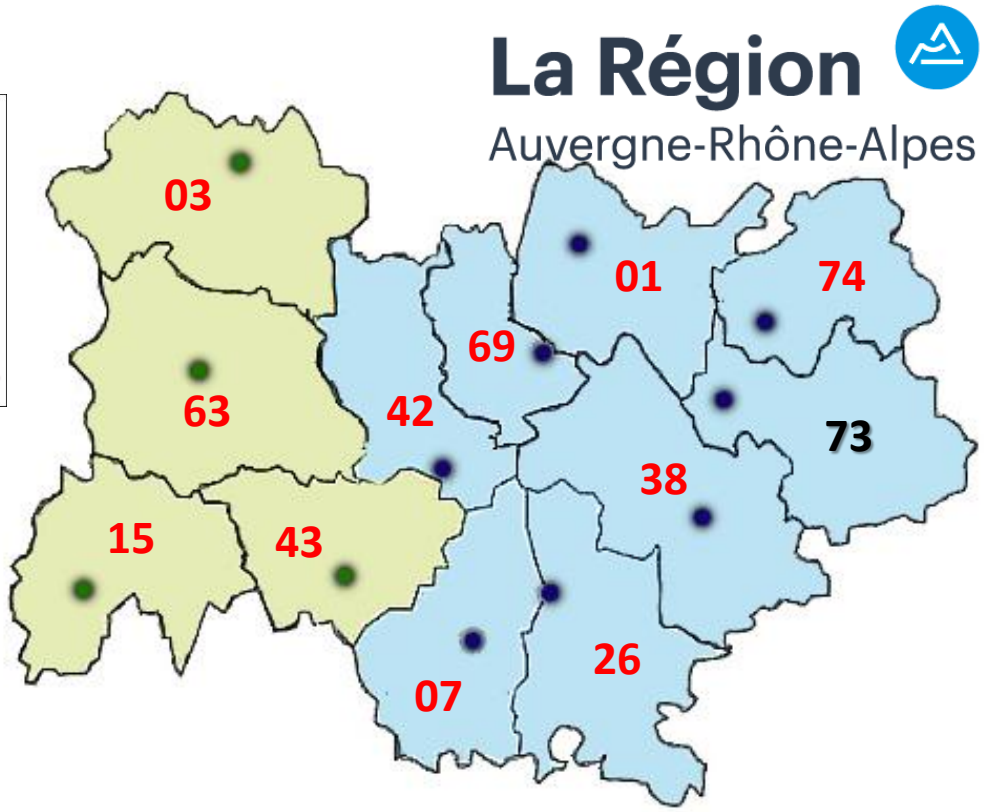

01	*AIN*	*Bourg en B.*
03	ALLIER	Moulins
07	ARDECHE	Privas
15	CANTAL	Aurillac
26	*DROME*	*Valence*
38	*ISERE*	*Grenoble*
42	LOIRE	St Etienne
43	HAUTE LOIRE	Le Puy en Velay
63	PUY DE DOME	Clermont Ferrand
69	*RHONE*	*Lyon*
73	*SAVOIE*	*Chambéry*
74	*HAUTE SAVOIE*	*Annecy*

Exercice 3 : complétez les tableaux suivants en indiquant le nom de la région, du département et de son chef lieu : :

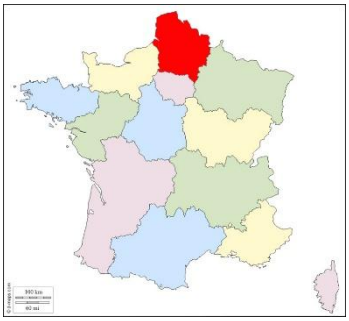

Région Hauts de France		
02	Aisne	Laon
59	Nord	Lille
60	Oise	Beauvais
62	Pas de Calais	Arras
80	Somme	Amiens

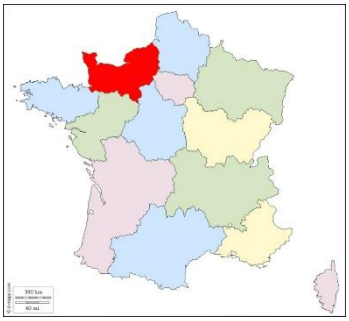

Région Normandie		
14	Calvados	Caen
27	Eure	Evreux
50	Manche	Saint Lô
61	Orne	Alençon
76	Seine Maritime	Rouen

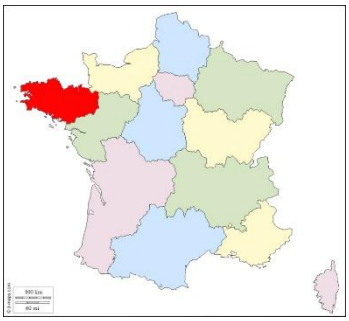

Région Bretagne		
22	Côte d'Armor	St Brieuc
29	Finistère	Quimper
35	Ille et Vilaine	Rennes
56	Morbihan	Vannes

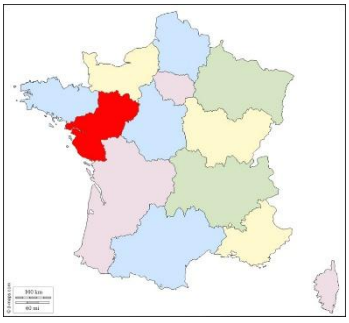

Région Pays de la Loire		
44	Loire Atlantique	Nantes
49	Maine et Loire	Angers
53	Mayenne	Laval
72	Sarthe	Le Mans
85	Vendée	La Roche/Yon

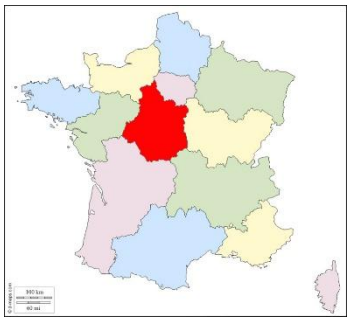

Région Centre – Val de Loire		
18	Cher	Bourges
28	Eure et Loir	Chartres
36	Indre	Châteauroux
37	Indre et Loire	Tours
41	Loir et Cher	Blois
45	Loiret	Orléans

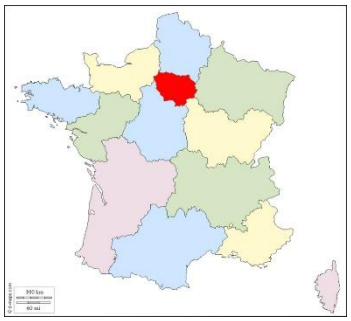

Région Ile de France		
75	(Seine) Paris	Paris
77	Seine et Marne	Melun
78	Yvelines	Versailles
91	Essonne	Evry
92	Hauts de Seine	Nanterre
93	Seine St Denis	Bobigny
94	Val de Marne	Créteil
95	Val d'Oise	Pontoise

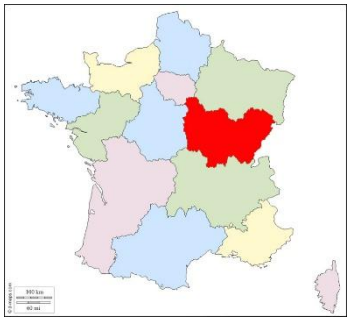

Région Bourgogne - Franche Comté		
21	Côte d'Or	Dijon
25	Doubs	Besançon
39	Jura	Lons le Saulnier
58	Nièvre	Nevers
70	Haut de Saône	Vesoul
71	Saône et Loire	Macon
89	Yonne	Auxerre
90	Terr. de Belfort	Belfort

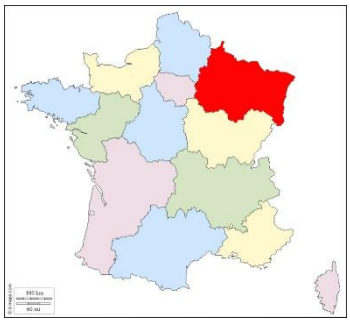

Région Grand Est		
08	Ardennes	Charleville M.
10	Aube	Troyes
51	Marne	Châlons en Ch.
52	Haute Marne	Chaumont
54	Meurthe&Moselle	Nancy
55	Meuse	Bar le Duc
57	Moselle	Metz
67	Bas Rhin	Strasbourg
68	Haut Rhin	Colmar
88	Vosges	Epinal

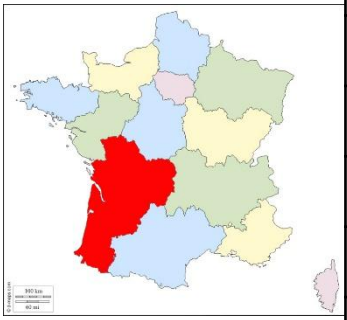

Région Nouvelle Aquitaine		
16	Charente	Angoulême
17	Charente Mar^{ime}	La Rochelle
19	Corrèze	Tulle
23	Creuse	Guéret
24	Dordogne	Périgueux
33	Gironde	Bordeaux
40	Landes	Mont de M
47	Lot et Garonne	Agen
64	Pyrénées Atl^{tiques}	Pau
79	Deux Sèvres	Niort
86	Vienne	Poitiers
87	Hte Vienne	Limoges

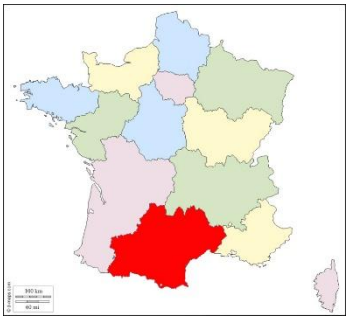

Région Occitanie		
09	Ariège	Foix
11	Aude	Carcassonne
12	Aveyron	Rodez
30	Gard	Nîmes
31	Haute Garonne	Toulouse
32	Gers	Auch
34	Hérault	Montpellier
46	Lot	Cahors
48	Lozère	Mende
65	Hautes Pyrénées	Tarbes
66	Pyrénées Orientales	Perpignan
81	Tarn	Albi
82	Tarn et Garonne	Montauban

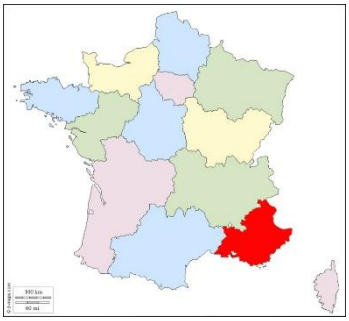

Région Provence – Alpes - Côte d'Azur		
04	Alpes Hte Provce	Digne
05	Hautes Alpes	Gap
06	Alpes Maritimes	Nice
13	Bouches du Rh.	Marseille
83	Var	Toulon
84	Vaucluse	Avignon

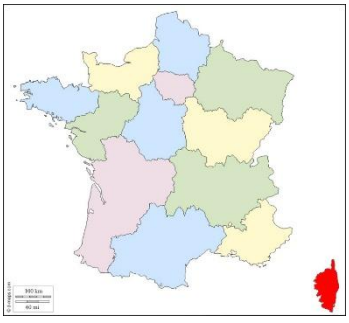

Région Corse		
2A	Corse du Sud	Ajaccio
2B	Haute Corse	Bastia

Exercice 4 : Complétez la carte de France donnée en ressource en positionnant les principales villes françaises suivantes :

Amiens	Clermont Ferrand	Limoges	Nice	Strasbourg
Brest	Dijon	Lyon	Paris	Toulon
Bayonne	Grenoble	Marseille	Perpignan	Toulouse
Bordeaux	La Rochelle	Montpellier	Rennes	
Calais	Le Havre	Nancy	Reims	Bastia
Cherbourg	Lille	Nantes	Rouen	Ajaccio

